بسم الله الرحمن الرحيم

امتحان نظرية الفصل الدراسي الأول

للعام 2018 / 2019

مدة الامتحان :-

اليوم و التاريخ :-

الحرف و الشعبة :- ٢.ث.ع ( )

المادة :- الفيزياء

الاسم :-

السؤال الأول :- أ- شحنتان نقطيتان موجبتان في الهواء، والبعد بينهما (٩٠) سم

إذا علمت ان المجال الكهربائي المحصل عند النقطة (س) يساوي صفراً

ومعتمداً على البيانات المبينة في الشكل أحسب مقدار

الشحنة (جـ) ونوعها.



ب- يوضح الشكل المجاور مجالاً كهربائياً منتظماً (مـ) مقداره (٢×١٠^٤) فولت/م

والنقاط (أ، ب، هـ) واقعة في المجال، بحيث تقع النقطتان (أ، هـ)

على خط مجال واحد والزاوية (هـ أ ب) قائمة، وطول (أ، هـ) يساوي (٨) سم

أحسب مما يأتي :-

١) ماذا يحدث للإلكترون حر عند وضعه في النقطة (هـ)

٢) أحسب الشغل المبذول في نقل شحنة كهربائية مقدارها

(٣×١٠^-٩) كولوم من النقطة (هـ) إلى النقطة (ب)

٣) أحسب كتلة جسيم شحنته (١×١٠^-٩) كولوم إذا

اتزن عند وضعه في النقطة (ب)

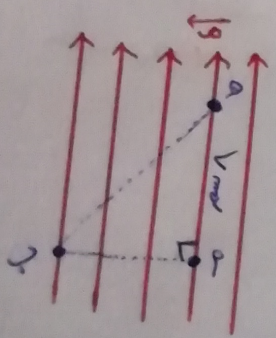

السؤال الثاني: يبين الشكل المقابل دارة كهربائية تحتوي على ثلاث مواسعات، إذا علمت أن

$جـ_{ب د} = ٨$ فولت ، $جـ_{د ب} = ٢٠$ فولت ، أوجد

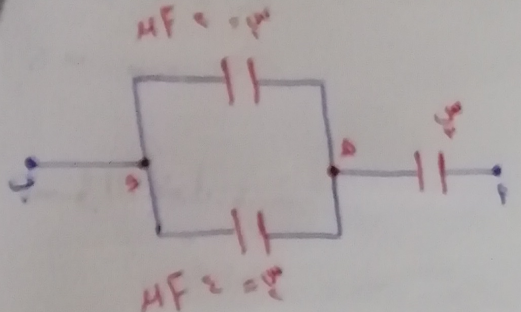

١- السعة لكل من المواسعين ($س_{٣}$ ، $س_{٤}$):

٢- مواسعة المواسع ($س_{٢٣}$):

٣- الطاقة المختزنة في المجموعة:

ب- يبين الشكل المجاور العلاقة البيانية بين جهد المكثف و لشحنة لمواسعين كهربائية (ل، ٤) في اثناء عملية الشحن للحد الذي من جهد ($٢جـ$) لا جهد نهائي:

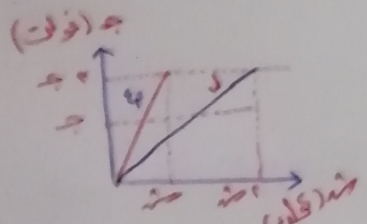

١- أي المواسعين يختزن طاقة أكبر، اثبت ذلك

٢- ماذا يحدث للمواسع (ل) إذا وصل مع بطارية جهدها ($٣جـ$):

السؤال الرابع :- في الدارة المبينة في الشكل :- إذا كانت

$ق_{د_1}$ = ٤ فولت ، $ق_{د_2}$ = ٧ فولت

$م_{1د}$ = $م_{د_2}$ = ١ Ω ، و ك = ٠

جهد النقطة (د) = ٣ فولت ، والنقطة (هـ) تتصل بالأرض

ملتزماً باتجاه التيارات المبينة في الشكل ، أحسب

ما يأتي :-

١- مقدار كل من ($ت_1$ ، $ت_2$)

٢- المقاومة المجهولة ($م_3$)

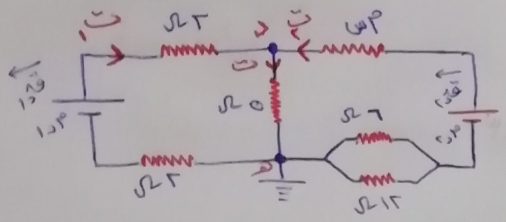

مع تمنيات معلم المادة :-

أسامة عليوان